제 2 교시 부엉이 탐구 영역(세계지리)

성명		수험 번호						–				

※총 20문항까지 있으며, 2점 10문항, 3점 10문항으로 50점 만점이노.

1. 빈칸에 공통으로 들어갈 국가의 수도는? [2점]

> 완전하게 대등한 외교는 할 수 없습니다. ____은(는) 초강대국입니다. 그런 그.. 저 헛소리는 하면 안 되고 ____의, ____의 힘에 상응하는 ____의 세계적 영향력에 상응하는 대우를 해 야 합니다. 동네 힘 센 사람이 돈 많은 사람이 동네 길 이렇게 고칩시다, 뚝 이렇게 고칩시다. 뭐 산에 나무 심읍시다, 하면 어지간한 사람은 따라가는 거죠. ____이 (가) 주도 하는 질서 그것을 거역할 수 없습니다. 그러나 최소한 자주국가 독립국가로서의 체면은 유지해야 될 것 아니겠냐? 때때로 한 번씩 배짱이라도 내 보일 수 있어야 될 것 아닙니까?

① 뉴욕 ② 워싱턴D.C ③ 도쿄 ④ 베이징 ⑤ 런던

2. 다음 자료의 (가)~(다)에 대한 옳은 설명을 <보기>에서 고른 것은? [3점]

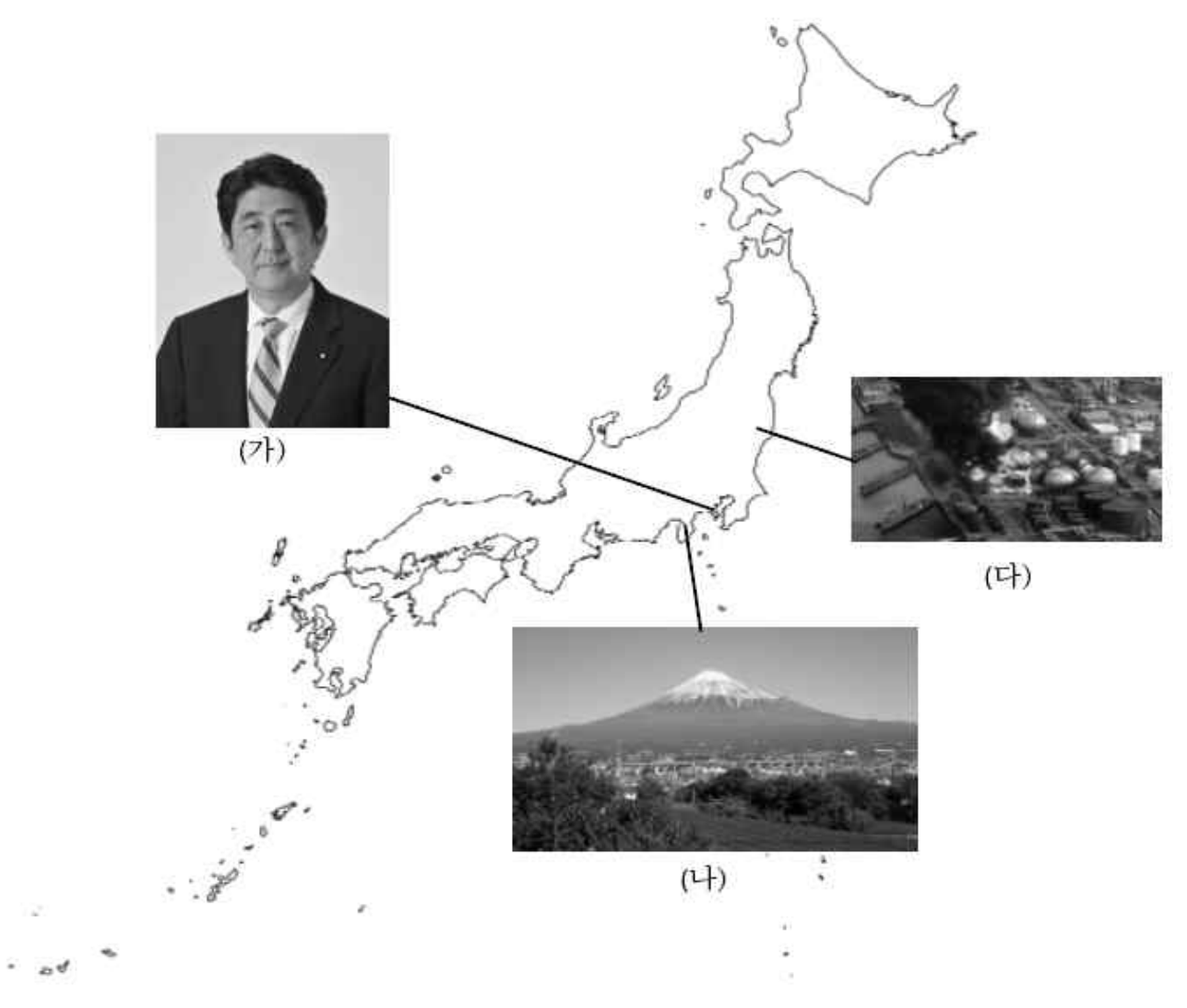

<보 기>

ㄱ. (가)와 별개로 대통령이 존재한다.
ㄴ. (나)는 경남 김해의 봉화산 부엉이바위보다 낮다.
ㄷ. (다)에 사고가 일어난 건, MC무현 데뷔 3년차 때이다.

① ㄱ ② ㄷ ③ ㄱ, ㄴ
④ ㄴ, ㄷ ⑤ ㄱ, ㄴ, ㄷ

3. 다음 자료의 (가), (나) 국가를 지도의 A~C에서 고른 것은? [2점]

> ○ 정치, 경제적으로 보았을 때 유럽연합 최대 최강 국가들 중의 하나인 (가)이(가) 탈퇴함으로써 유럽연합에 미칠 영향이 매우 클 것으로 예상된다.
> ○ 빅토르 안으로 출전한 2014년 소치 동계올림픽에서 (나) 대표팀에 금메달 3개를 안겼다. 그러나 2018 평창 동계올림픽을 앞두고는 (나)의 조직적 도핑 스캔들에 휩싸여 출전 금지당했고 결국 지난 4월 공식 은퇴했다.

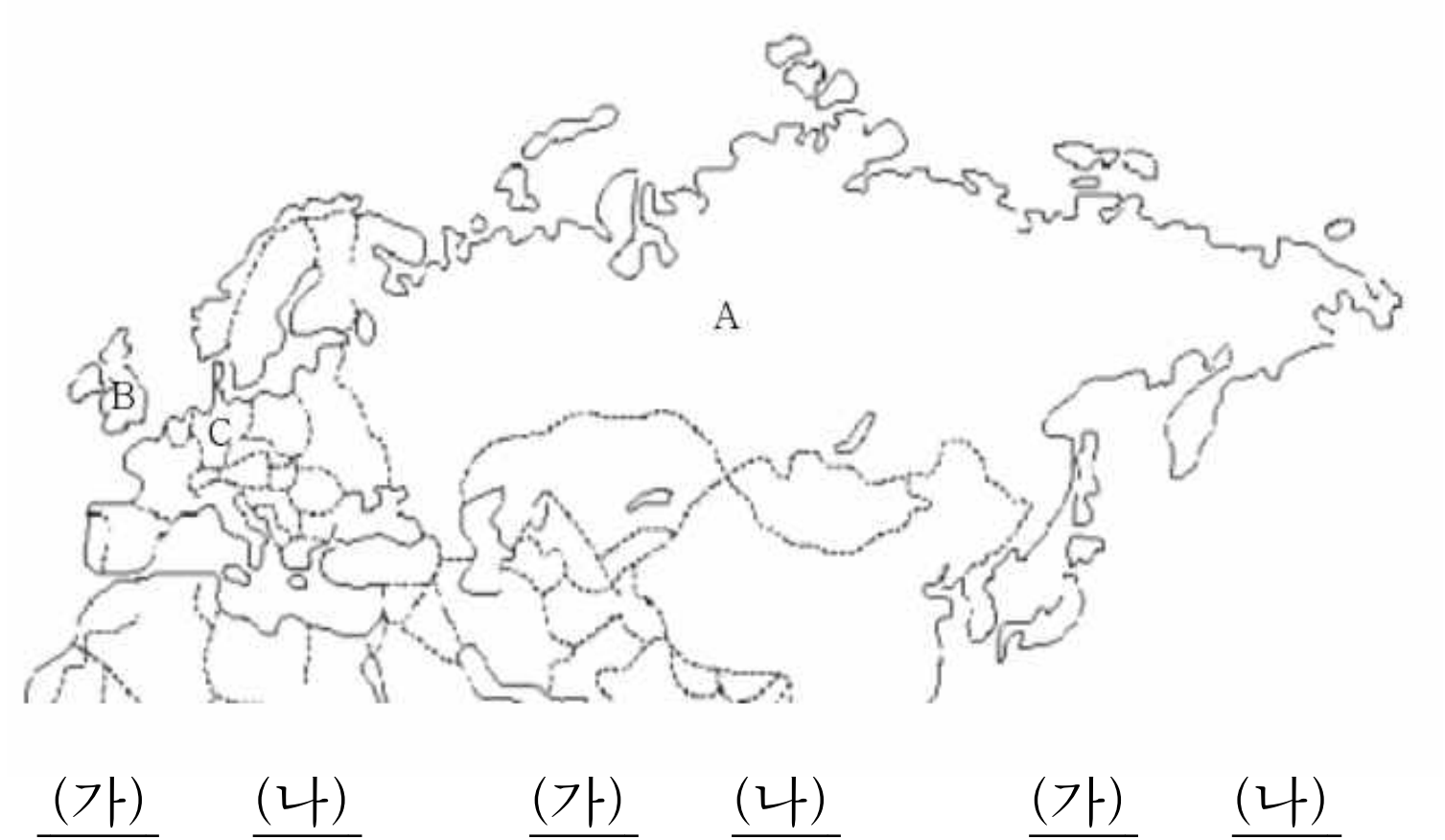

	(가)	(나)
①	A	B
②	A	C
③	B	A
④	B	C
⑤	C	B

4. 다음은 특정 나라의 언어이다. 이 나라에 대한 설명으로 옳은 것을 <보기>에서 고른 것은? [2점]

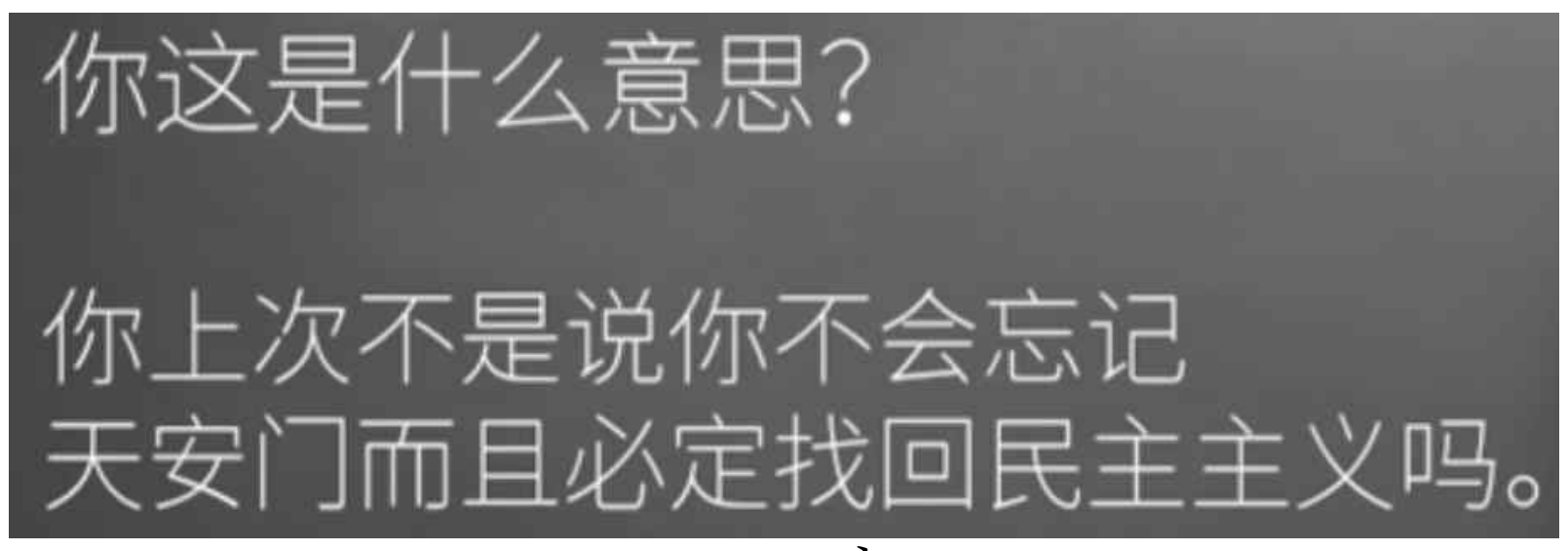

<보 기>

ㄱ. 현재 한국의 대통령이 좋아하는 나라이다.
ㄴ. 이 나라의 언어에는 성조가 있으며, 4성까지 존재한다.
ㄷ. 자료의 문장으로 DC인사이드 메이저 갤러리 알바 중 일부를 부엉이 바위로 보낼 가능성이 존재한다.

① ㄴ ② ㄷ ③ ㄱ, ㄴ
④ ㄱ, ㄷ ⑤ ㄱ, ㄴ, ㄷ

5. 다음 지도의 A, B, C, D와 각각에 들어갈 심볼 (가), (나), (다), (라)를 바르게 연결한 것을 고르면? [3점]

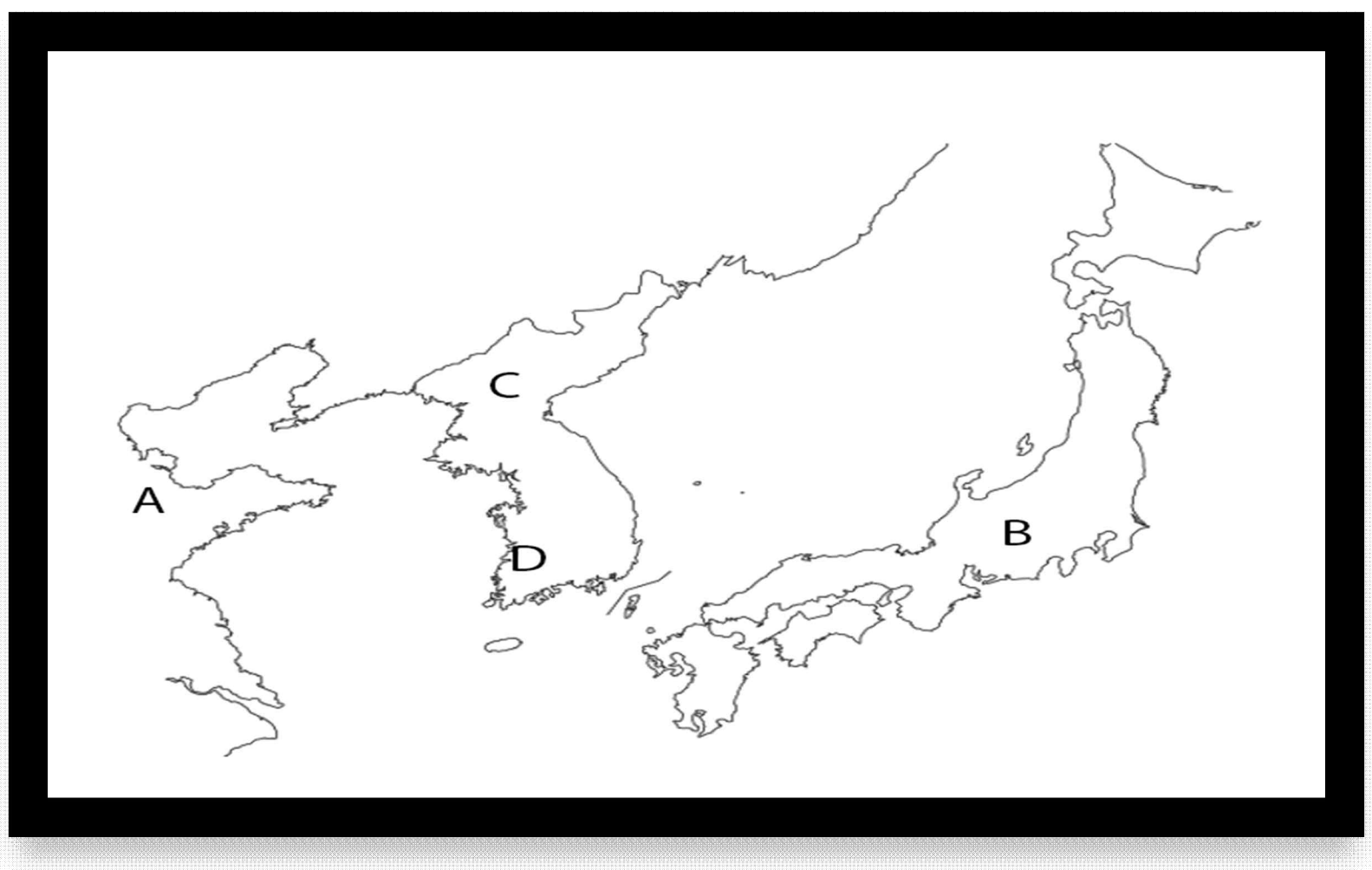

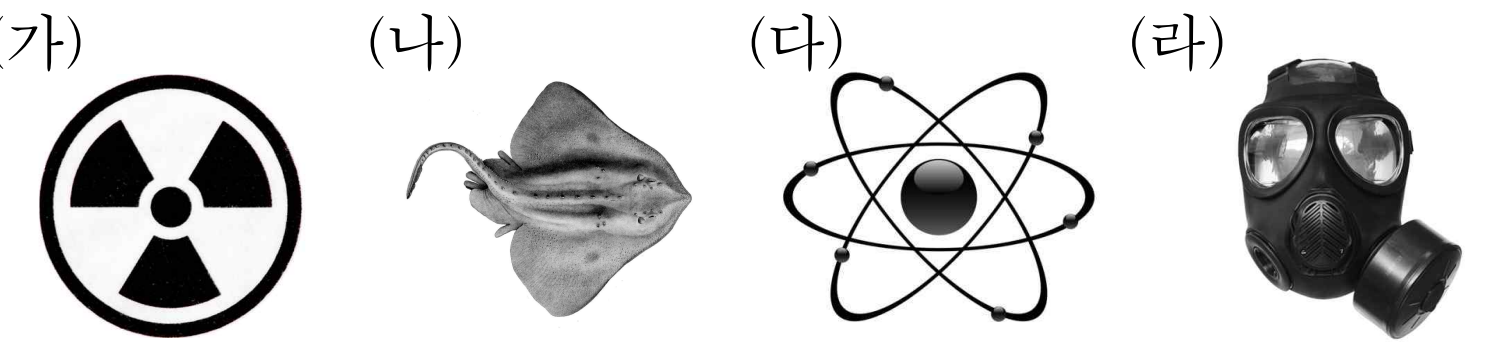

	(가)	(나)	(다)	(라)
①	A	B	C	D
②	C	D	B	A
③	B	A	C	D
④	B	D	C	A
⑤	C	A	B	D

6. 중국에 대한 설명으로 옳은 것을 <보기>에서 고른 것은? [2점]

<보 기>

ㄱ. 중국인들의 민도는 세계 평균보다 낮은 편이다.
ㄴ. 성능좋은 노무현식 마파 두부 덮밥은 중국 요리이다.
ㄷ. 중국 모바일 게임은 질이 높고 매출 순위가 낮다.
ㄹ. 한국의 주적은 중국보다는 일본이다.

① ㄱ, ㄴ ② ㄴ, ㄷ ③ ㄴ, ㄹ
④ ㄱ, ㄷ, ㄹ ⑤ ㄴ, ㄷ, ㄹ

7. 미국에 대한 설명으로 옳은 것을 <보기>에서 모두 고른 것은? [3점]

<보 기>

ㄱ. 미국을 상징하는 새는 흰머리 부엉이이다.
ㄴ. 2020년 기준, 미국의 대통령으로 음원 합성이 이루어지고 있다.
ㄷ. 미국의 16대 대통령과 한국의 16대 대통령은 둘 다 자살로 생을 마감하였다.

① ㄱ ② ㄴ ③ ㄷ
④ ㄱ, ㄷ ⑤ ㄱ, ㄴ, ㄷ

8. 다음은 미국의 50개 주를 나타낸 지도이다. <보기>의 '노무현 전 대통령 사 시리즈'와 관련된 주의 위치를 고른 것은? [3점]

<보 기>

① A ② B ③ C
④ D ⑤ E

9. 다음 GDP 순위 표를 보고 이에 대한 설명으로 옳은 것을 <보기>에서 고른 것은? [3점]

순위	국가명	GDP($)	기준년도
1	A	19조 3,621억	2017
2	B	11조 9,375억	2017
3	C	4조 8,844억	2017
4	독일	3조 6,518억	2017
5	프랑스	2조 5,748억	2017
6	영국	2조 5,650억	2017
7	인도	2조 4,390억	2017
8	브라질	2조 0,809억	2017

<보 기>

ㄱ. 인구는 A>C>B이다.
ㄴ. 면적은 A>B>C이다.
ㄷ. 민족으 등불 인동초 김머중 슨상님은 "좋은 C 문화 받아들이자"라는 말을 한 적이 있다.

① ㄱ ② ㄷ ③ ㄱ, ㄴ
④ ㄴ, ㄷ ⑤ ㄱ, ㄴ, ㄷ

10. 다음은 하라는 나랏일은 안 하고, 직무유기 하면서 순방이라는 핑계로 해외여행이나 쳐 다니는 박근혜 전 대통령의 미국 순방 일지의 일부이다. 박근혜가 5월 22일부터 5월 24일까지 여행한 미국 지역의 순서를 바르게 나열한 것은?[2점]

5월 22일 - 5월임에도 날씨가 매우 추웠고 그런 마음가짐으로 추워서 혼이 비정상이 될 것 같았다. 5월 23일 - 오늘은 노무현 전 대통령 서거 7주기가 되는 날인데, 노무현 전 대통령은 오렌지 안 먹는다는데 나는 오렌지를 선호하기 때문에 근처의 오렌지 농장에서 오렌지를 직접 사서 먹었다. 바쁜 벌꿀은 슬퍼할 시간도 없다. 5월 24일 - 이곳의 날씨는 나의 조국, 대한민국과 거의 비슷했다. 그래서 대통령직을 사퇴하고 싶어졌다. 제가 뭐라고 했습니까?

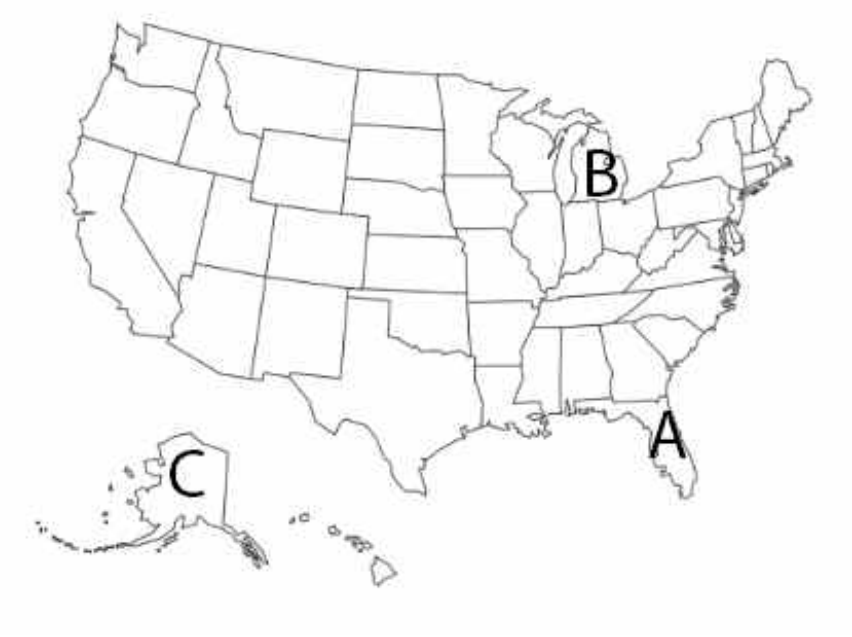

① A-C-B
② B-A-C
③ B-C-A
④ C-A-B
⑤ C-B-A

11. 지도의 A~D 지역에 대한 설명으로 옳지 않은 것은? [2점]

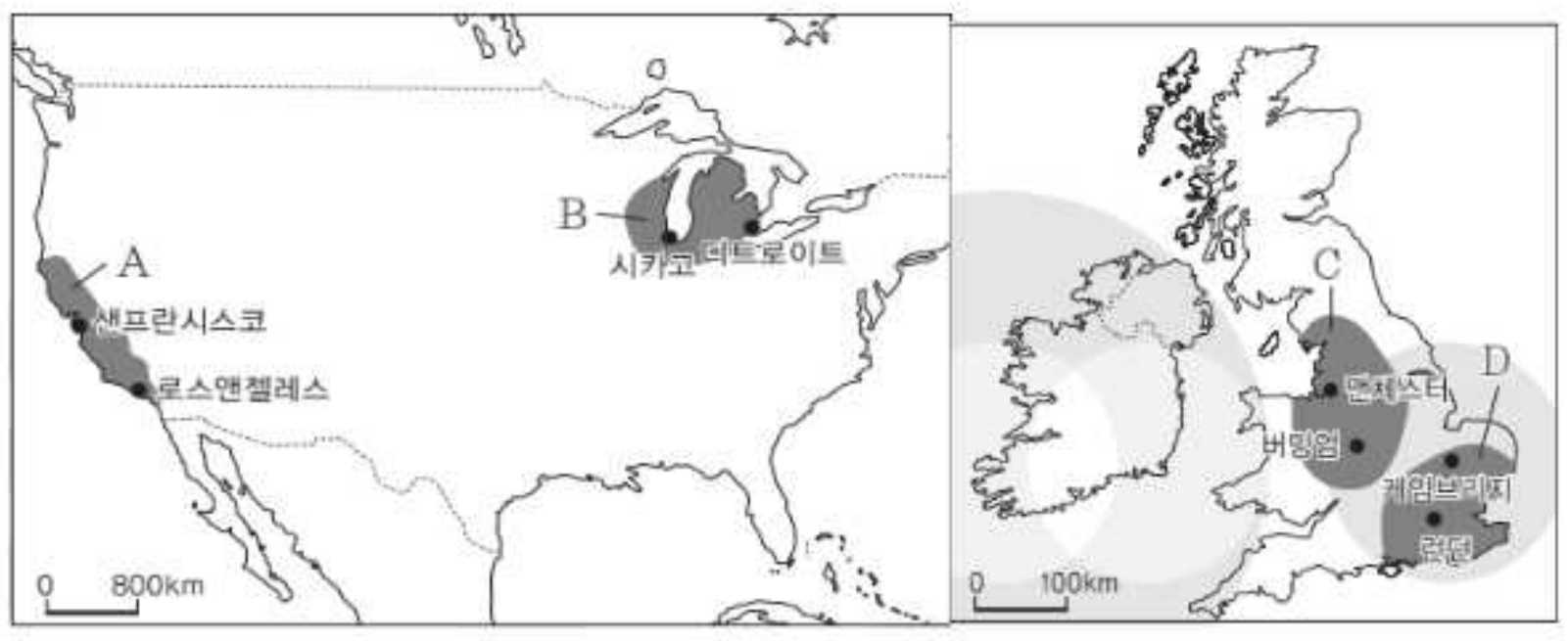

① A에 세계 주요 IT 기업의 본사가 입지해있다.
② B를 다른 말로 '러스트 벨트(Rust Belt)'라고 한다.
③ C에 보리스 영국 총리의 관저가 위치한다.
④ 김대중 전 대통령은 D에 있는 대학교를 졸업하지 않았다.
⑤ 미국 산업의 중심은 B에서 A로 이동하였다.

12. 다음 MC무현 음원 중 지리적 관점으로 보았을 때, 성격이 다른 하나는? [2점]

① 노무현 응디 SEX
② Bongha State of Mind
③ Bongha Town Road
④ Despacino
⑤ 523 Rings

13. 다음은 어느 나라의 수반이다. 이 사람은 '살아있는 노무현'이라고 할 수 있을 정도로 노무현과 유사한 점이 많다. 그런 그저 헛소리는 하면 안되고, 이 나라에 대하여 옳은 설명을 <보기>에서 고른 것은? [3점]

<보기>

ㄱ. 한국과 달리, 대통령제를 실시하지 않는 국가이다.
ㄴ. 아프리카 식민지 정책으로 '횡단 정책'을 시행하였다.
ㄷ. 관광지로 '노트르담 대성당'이 있다.

① ㄱ ② ㄷ ③ ㄱ, ㄴ
④ ㄴ, ㄷ ⑤ ㄱ, ㄴ, ㄷ

14. 다음 조건을 모두 충족시키는 나라는? [2점]

○ 국기에 '유니언 잭(Union Jack)'이 없다.
○ '커먼웰스(Common Wealth)'에 속한다

① 호주 ② 아일랜드 ③ 뉴질랜드
④ 싱가포르 ⑤ 감비아

15. (가)와 (나)는 A, B, C 중 어느 한 지역의 기후 그래프를 나타낸 것이다. (가)와 (나)를 바르게 짝지은 것은? [2점]

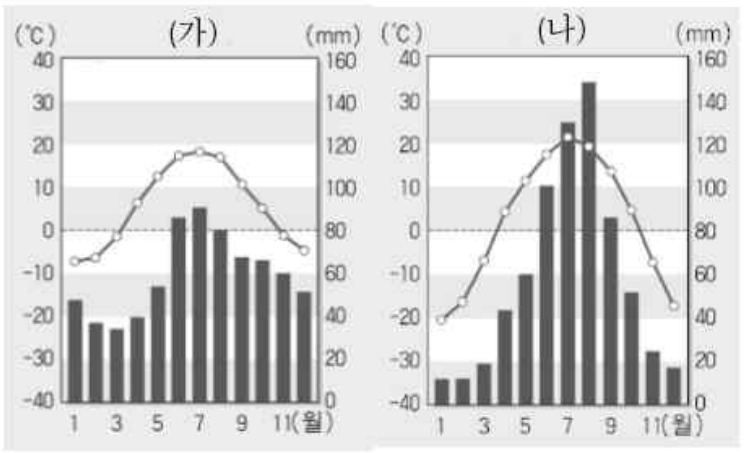

	(가)	(나)		(가)	(나)		(가)	(나)
①	A	B	②	A	C	③	B	A
④	B	C	⑤	C	B			

16. 러시아에 대한 설명으로 옳은 것을 <보기>에서 모두 고른 것은? [3점]

<보 기>

ㄱ. 우주 산업으로 세계를 선도하는데 인공위성 기술이 특히 발달하여 미국보다 우위에 있다.
ㄴ. 소비재 산업보다 생산재 산업이 더 발달하였다.
ㄷ. MC무현의 '성악 전공 노무현'을 표절한 가수가 있다.

① ㄱ ② ㄴ ③ ㄱ, ㄷ
④ ㄴ, ㄷ ⑤ ㄱ, ㄴ, ㄷ

17. 다음은 일본에 대한 설명이다. <보기>에서 옳은 설명을 고른 것은? [3점]

일본의 행정구역은 크게 (A)도, (B)도, 부, 현으로 이루어져 있다. 문화적으로는, 아이돌 문화(일명 J-POP)는 한국의 K-POP에 비해 질적인 면에서 밀리지만, '(C)X-JAPAN' 등의 가수처럼 음악적으로 훌륭한 아티스트도 존재한다. 특히, 일본은 다른 나라에 비해 게임 산업이 발달했는데, (D)닌텐도가 대표적이라고 할 수 있다.

<보 기>

ㄱ. (A)는 도쿄, (B)는 홋카이도이다.
ㄴ. (C)는 MC무현의 'Endless Unji'를 표절하였다.
ㄷ. (D)의 게임으로 포켓몬스터, 젤다의 전설 등이 있다.

① ㄱ ② ㄴ ③ ㄱ, ㄷ
④ ㄴ, ㄷ ⑤ ㄱ, ㄴ, ㄷ

18. 다음은 프랑스의 역사적 순간을 프랑스 특유의 고퀄리티 그림으로 나타낸 것이다. 시간 순서대로 바르게 나열한 것은? [2점]

A B C

① A-B-C ② A-C-B ③ B-A-C
④ B-C-A ⑤ C-B-A

19. 다음 자료를 보고 <보기>에서 옳은 설명을 고른 것은? [3점]

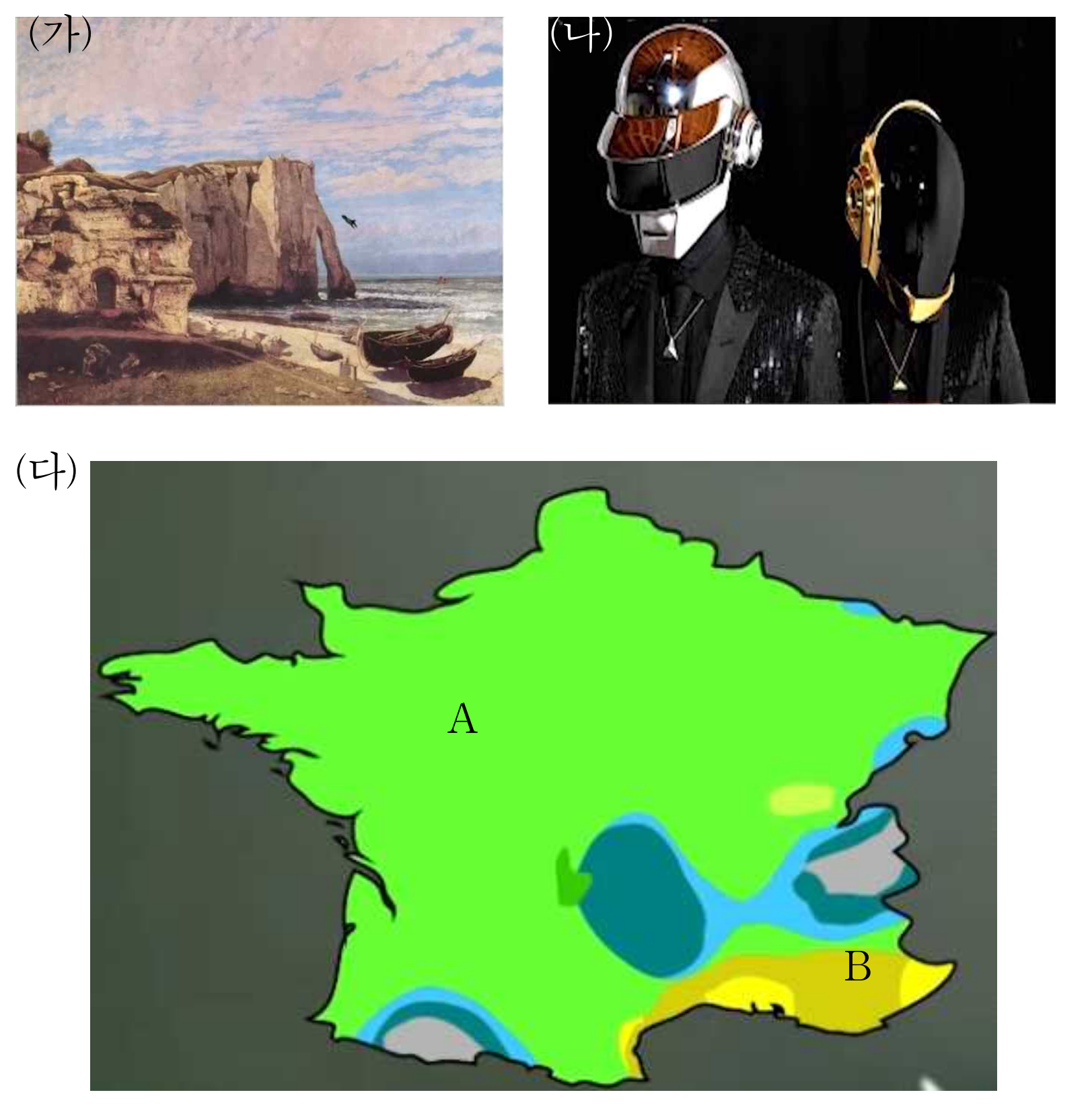

<보 기>

ㄱ. (가)는 '쿠르베'의 작품이다.
ㄴ. (나)의 음악장르는 EDM이다.
ㄷ. (다)에서 프랑스의 식문화에 영향을 더 많이 준 지역은 B보다 A이다.

① ㄱ ② ㄴ ③ ㄱ, ㄷ
④ ㄴ, ㄷ ⑤ ㄱ, ㄴ, ㄷ

20. 다음은 어떤 MC무현 명곡의 노래 가사이다. 이 노래와 가장 관련 있는 지역을 지도에서 찾아 고르면? [3점]

경제도 잘하고, 잘하고, 잘하고, 잘하고, 잘하고, 잘하고 잘하고요 차 잘만들고, 배 잘만들고, 못 하는게 없는데
문화도 잘하고, 잘하고, 잘하고, 잘하고, 잘하고, 잘하고 잘하고요
차 잘만들고, 배 잘만들고, 좋다
(중략)
7퍼센트 못해서 죄송합니다, 6퍼센트 못해서 운지합니다.
죽을똥살똥 했는데 괜찮겠습니까, 경제 살린다 말 안했지만은 뜨끔합니다. - **은디탁, <노들송>**

① A ② B ③ C
④ D ⑤ E